MAISON DE BANLIEUE ET DE L'ARCHITECTURE
www.maisondebanlieue.fr

Fiche d'activité : Athis-Mons au Moyen Age

Nom : _ Prénom : _ _ _ _ _ _ _ _ _ _ _ _ _ _ _ _ _ _

Date : _

Deux villages : Athis et Mons

Complète les textes :

Le Moyen Age est une longue période d'environ _ _ _ _ _ _ _ ans, qui commence au Ve siècle et se termine au XVe siècle.

Au Moyen Age, Athis-Mons n'était pas une _ _ _ _ _ _ _ _ _ _ _ _. Il y avait deux _ _ _ _ _ _ _ _ _ _ _ _ _ _ _, Athis et Mons, qui se sont réunis beaucoup plus tard en 1817. Il n'y avait que quelques centaines d'habitants dans ces petits villages. Presque tous ces habitants étaient des paysans.

A Mons, il y avait une grosse ferme qui était la propriété de la cathédrale Notre-Dame de Paris depuis le XVe siècle.

Que cultivaient les paysans d'Athis et de Mons ?

Des _ _ _ _ _ _ _ _ _ _ _ _ _ _ _ _sur le plateau.

De la _ _ _ _ _ _ _ _ _ _ _ _ _ _ _ _ sur le coteau.

De l'_ _ _ _ _ _ _ _ _ _ _ _ _ _ _ _ _dans la vallée.

Le village d'Athis au Moyen Age

Le village était composé de petites maisons modestes en bois, torchis et chaume. Il ne reste plus de maisons de cette époque. Il n'y avait alors que trois rues, qui ont changé de nom, mais existent toujours :

- La Grande-rue entre Athis et Mons (actuelle rue Anthonioz-de Gaulle)
- La rue de la Montagne d'Athis entre le plateau et la vallée
- La rue de la Juiverie dans le village (actuelle rue Lebeau)

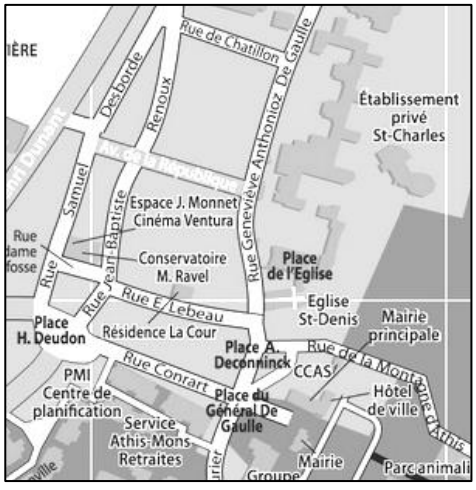

Colorie ces trois rues sur le plan.

Le bâtiment le plus ancien d'Athis-Mons

Les trois rues se rejoignaient à un grand carrefour, devant un bâtiment très important au Moyen Age. **De quel bâtiment s'agit-il ?** _

La fête du village avait lieu le 9 octobre, jour de la fête du saint dont le nom a été donné à l'église d'Athis. **Comment s'appelle cette église ?** _

Cette église a été construite au XIIe siècle, mais aujourd'hui il ne reste qu'une seule partie du bâtiment de cette époque. **Laquelle ?** _

Pour le Moyen Age, on fait la différence entre deux grands styles d'architecture : le roman et le gothique. **Quel est le style du clocher d'Athis ?** _

L'architecture romane

A l'intérieur

Le plafond du chœur de l'église est une

_ _ _ _ _ _ _ _ _ _ _ _ _ _ _

de pierre, soutenue par un arc.



La partie supérieure de la colonne s'appelle le

_ _ _ _ _ _ _ _ _ _ _ _ _ _ _ .

Il est souvent décoré. Quel motif décore celui-ci ?

_ _ _ _ _ _ _ _ _ _ _ _ _ _ _ .

A l'extérieur



Dans le clocher, il y a les_ _ _ _ _ _ _ _ _ _ _ _ _ _ _ _.

En quel matériau est construit le clocher ? _ _ _ _ _ _ _ _ _ _ _ _ _ _ _ _.

Le clocher est de forme octogonale. Combien de côtés a-t-il ? _ _ _ _ _ _ _ _.

Le clocher est très lourd. Il est renforcé à chaque angle par un

_ _ _ _ _ _ _ _ _ _ _ _ _ _ _ _.